A Name: _____

Quelle: taptapklick.de

Würfel-Rechnen Addition

1. Würfele mit **drei Würfeln**.
2. Bilde eine **dreistellige Zahl** und schreibe sie auf.
3. **Wiederhole** Schritte 1 und 2.
4. **Addiere** beide Zahlen. **Zeige deinen Rechenweg!**

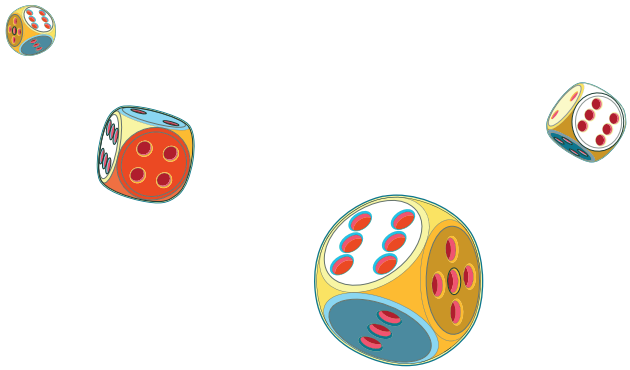

Zahl 1

H	Z	E

Zahl 2

H	Z	E

Rechenweg

Zahl 1

H	Z	E

Zahl 2

H	Z	E

Rechenweg

Zahl 1

H	Z	E

Zahl 2

H	Z	E

Rechenweg

Zahl 1

H	Z	E

Zahl 2

H	Z	E

Rechenweg

Zahl 1

H	Z	E

Zahl 2

H	Z	E

Rechenweg

B Name: _____

Quelle: taptapklick.de

Würfel-Rechnen Addition

1. Würfele mit **drei Würfeln**.
2. Trage **eine Zahl** für die **Hunderter** ein.
3. Trage die **andere Zahl** für die **Einer** ein.
4. **Wiederhole** Schritte 1 , 2 und 3.
5. **Addiere** beide Zahlen. **Zeige deinen Rechenweg!**

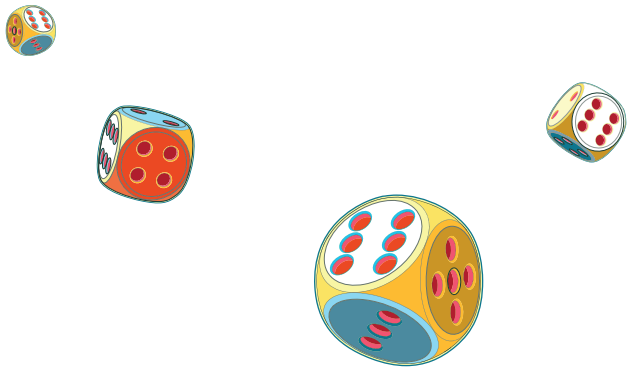

Zahl 1

H	Z	E
		0

Zahl 2

H	Z	E
		0

Rechenweg

Zahl 1

H	Z	E
		0

Zahl 2

H	Z	E
		0

Rechenweg

Zahl 1

H	Z	E
		0

Zahl 2

H	Z	E
		0

Rechenweg

Zahl 1

H	Z	E
		0

Zahl 2

H	Z	E
		0

Rechenweg

Zahl 1

H	Z	E
		0

Zahl 2

H	Z	E
		0

Rechenweg

Name: _____

Quelle: taptapklick.de

Würfel-Rechnen Addition

1. Würfele mit **zwei Würfeln**.
2. Trage **eine Zahl** für die **Zehner** ein.
3. Trage die **andere Zahl** für die **Einer** ein.
4. **Wiederhole** die Schritte 1, 2 und 3.
5. **Addiere** beide Zahlen und. **Zeige deinen Rechenweg**!

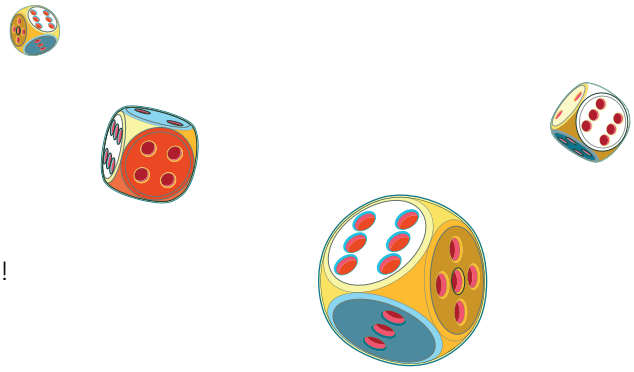

Zahl 1

Z	E

Zahl 2

Z	E

Rechenweg

Zahl 1

Z	E

Zahl 2

Z	E

Rechenweg

Zahl 1

Z E

Zahl 2

Z E

Rechenweg

Zahl 1

Z E

Zahl 2

Z E

Rechenweg

Zahl 1

Z E

Zahl 2

Z E

Rechenweg

D Name: _____

Quelle: taptapklick.de

Würfel-Rechnen Addition

1. Würfele mit **zwei Würfeln**.
2. Trage das Ergebnis **bei den Zehnern** ein.
3. **Wiederhole** Schritte 1 und 2.
4. **Addiere** beide Zahlen. **Zeige deinen Rechenweg!**

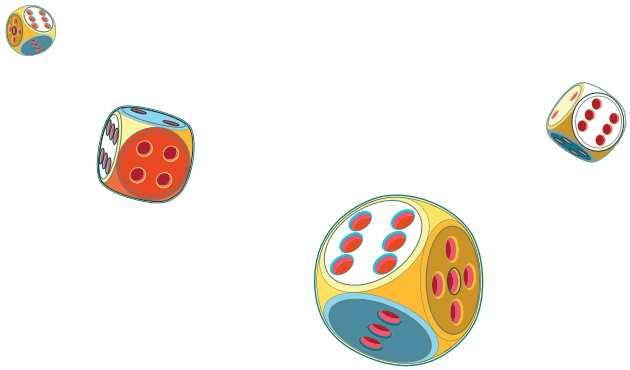

Zahl 1

Z	E
	0

Zahl 2

Z	E
	0

Rechenweg

Zahl 1

Z	E
	0

Zahl 2

Z	E
	0

Rechenweg

Zahl 1

Z	E
	0

Zahl 2

Z	E
	0

Rechenweg

Zahl 1

Z	E
	0

Zahl 2

Z	E
	0

Rechenweg

Zahl 1

Z	E
	0

Zahl 2

Z	E
	0

Rechenweg